Ad Soyad: _____ Tarih: _____



Kesirler

3. Sınıf Matematik

Doğru seçeneği yuvarlak içine alalım.

1 Boyalı kısım bütünün kaçta kaçıdır?

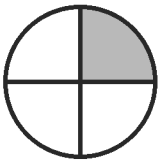

(A) $\frac{1}{2}$
(B) $\frac{1}{4}$
(C) $\frac{1}{3}$

2 Hangi şekil eş parçalara bölünmüştür?

(A)  (B)  (C) 

3 Boyalı kısım için hangisi doğrudur?



(A) Şeridin yarımıdır.
(B) Şeridin çeyreğidir.
(C) Şeridin bütünüdür.

4 Hangi şeklin çeyreği boyalıdır?

(A) 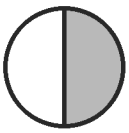 (B)  (C) 

5 Hangisi birim kesirdir?

(A) $\frac{2}{5}$ (B) $\frac{4}{4}$ (C) $\frac{1}{7}$

6 Boyalı kısmı gösteren kesir hangisidir?



(A) $\frac{3}{5}$
(B) $\frac{2}{5}$
(C) $\frac{5}{3}$

7 Bu kesirde payda neyi gösterir?

$\frac{2}{6}$

(A) Boyalı parça sayısını
(B) Bütündeki eş parça sayısını
(C) Boyasız parça sayısını

8 Ok hangi kesri gösterir?

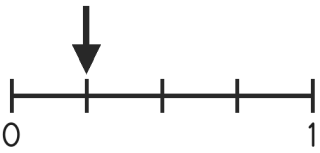

(A) $\frac{1}{4}$
(B) $\frac{1}{3}$
(C) $\frac{4}{1}$

9 Boyasız kısım bütünün kaçta kaçıdır?

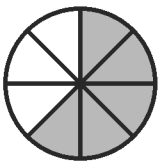

(A) $\frac{5}{8}$
(B) $\frac{3}{5}$
(C) $\frac{3}{8}$

10 Zeynep bir pizzayı 6 eş dilime ayırdı, birini kardeşine verdi. Kardeşine verdiği dilim pizzanın kaçta kaçıdır?

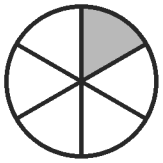

(A) $\frac{1}{5}$ (B) $\frac{1}{6}$ (C) $\frac{6}{1}$

Cevap anahtarı: 1–B 2–C 3–A 4–B 5–C 6–A 7–B 8–A 9–C 10–B