3. Sınıf 14–22 Kasım



Ara Tatil Kitabım



Türkçe Matematik Hayat Bilgisi Fen Bilimleri

Adı Soyadı .....

1. Gün Türkçe

Eş Anlamlısını Bul

Eş anlamlı sözcükleri çizgiyle birleştir.

1 kelime	konuk
2 cevap	kara
3 hediye	sözcük
4 misafir	hekim
5 doktor	armağan
6 yıl	sene
7 ad	yanıt
8 siyah	isim

1. Gün | Matematik

Adı Soyadı _____

Sayıları Modelleyelim

Modelin gösterdiği sayıyı yaz.

1



Sayı: 235

2



Sayı: ☐

3



Sayı: ☐

4



Sayı: ☐

Boş kutuları doldur.

5 6 yüzlük, 1 onluk ve 9 birlik ☐ eder.

6 4 yüzlük ve 7 birlik ☐ eder.

7 800 + 30 + 5 = ☐

8 583 = ☐ + ☐ + ☐

2. Gün | Matematik

Adı Soyadı _____

Sayıları Sıralayalım

Sayıdan hemen önce ve hemen sonra gelen sayıları yaz.

1 [469] 470 [471]

2 [ ] 399 [ ]

3 [ ] 700 [ ]

4 [ ] 909 [ ]

Sayının hangi iki onluk ya da yüzlük arasında olduğunu yaz.

5 563 sayısı [ ] ile [ ] onlukları arasındadır.

6 291 sayısı [ ] ile [ ] onlukları arasındadır.

7 847 sayısı [ ] ile [ ] yüzlükleri arasındadır.

8 735 sayısı [ ] ile [ ] yüzlükleri arasındadır.

Sayıları küçükten büyüğe sırala.

9 608, 680, 86, 806 [ ] < [ ] < [ ] < [ ]

10 915, 519, 159, 951 [ ] < [ ] < [ ] < [ ]

2. Gün | Fen Bilimleri

Adı Soyadı _____

Bilim İnsanları

Her cümle için Doğru ya da Yanlış kutusunu işaretle.

1 Bilim insanları merak ettikleri konularda soru sorar. ☑ Doğru ☐ Yanlış

2 İnternette okuduğumuz her bilgi doğrudur. ☐ Doğru ☐ Yanlış

3 Gözlem yapmak bilgiye ulaşma yollarından biridir. ☐ Doğru ☐ Yanlış

4 Bilim insanları deneylerinin sonuçlarını not eder. ☐ Doğru ☐ Yanlış

5 Bilim insanları ilk denemede sonuç alamazsa hemen vazgeçer. ☐ Doğru ☐ Yanlış

6 Ansiklopedi, bilgiye ulaşmak için kullanabileceğimiz bir kaynaktır. ☐ Doğru ☐ Yanlış

7 Bir bilgiyi araştırmadan doğru kabul ederiz. ☐ Doğru ☐ Yanlış

8 Bilim insanları buldukları bilgileri kimseyle paylaşmaz. ☐ Doğru ☐ Yanlış

9 Bir konuyu bilen uzmana soru sormak bilgiye ulaşma yoludur. ☐ Doğru ☐ Yanlış

10 Bilim insanları yalnız laboratuvarda çalışır. ☐ Doğru ☐ Yanlış

Adı Soyadı _____

Okuma Metni

Sınıfımızın Panosu



Kasım ayının ilk haftasında öğretmenimiz sınıfa büyük bir pano getirdi. Panoyu 10 Kasım için birlikte hazırlayacaktık.

Elif, kütüphaneden Atatürk'ün çocukluğunu anlatan bir kitap buldu. Kitapta Atatürk'ün okumayı çok sevdiği yazıyordu. Mert, dedesinin sakladığı eski bir gazeteyi getirdi. Ben de Atatürk'ün çocuklara armağan ettiği 23 Nisan için bir resim çizdim.

Kartları panoya yerleştirirken Elif'in kartı yere düştü ve yırtıldı. Elif çok üzüldü. Mert hemen yanına gitti. İkisi kartı yeniden yazdı.

10 Kasım sabahı saat 09.05'te saygı duruşunda bulunduk. Sonra öğretmenimiz panomuza baktı ve hepimize teşekkür etti.

1 Metni okumadan önce başlığına ve resmine bak. Metin ne hakkında olabilir?

Atatürk için hazırlanan bir pano hakkında.

2 Pano ne için hazırlandı?

3 Elif kütüphaneden ne buldu?

4 Mert panoya ne getirdi?

5 Elif'in kartına ne oldu? Elif ne hissetti?

6 Mert, Elif'e nasıl yardım etti?

7 Metnin konusu nedir?

8 Metnin ana fikri nedir?

3. Gün | Hayat Bilgisi

Adı Soyadı _____

Çocuk Hakları

Her durumdaki hakkı kutudan seçip yaz.

eğitim hakkı | sağlık hakkı | oyun ve dinlenme hakkı | korunma hakkı | düşüncesini söyleme hakkı | isim ve vatandaşlık hakkı

1 Defne her sabah okula gider, yeni şeyler öğrenir.
Eğitim hakkı

2 Ateşi çıkan Ali'yi annesi doktora götürdü.

3 Ödevlerini bitiren Zeynep parkta arkadaşlarıyla oynadı.

4 Yeni doğan bebeğe ailesi bir ad verdi ve onu nüfusa kaydettirdi.

5 Sınıf başkanı seçiminde Can da fikrini söyledi.

6 Trafik polisi, okul yolunda çocukların karşıya geçmesine yardım etti.

7 Ela'nın okulunda kitaplık açıldı, herkes kitap ödünç alabiliyor.

8 Kimse çocukları ağır işlerde çalıştıramaz.

Adı Soyadı _____

Ritmik Sayma ve Örüntü

Sayı doğrusundaki boş kutulara uygun sayıları yaz.

1

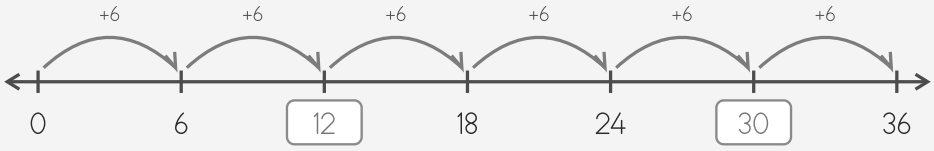

2

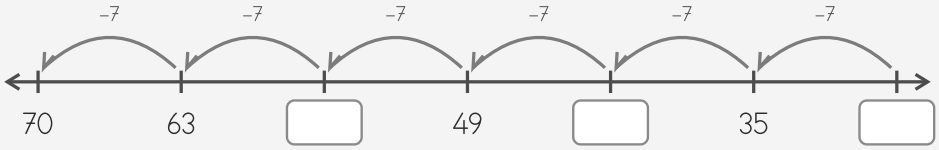

3

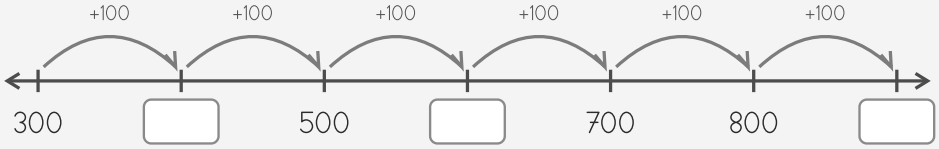

4

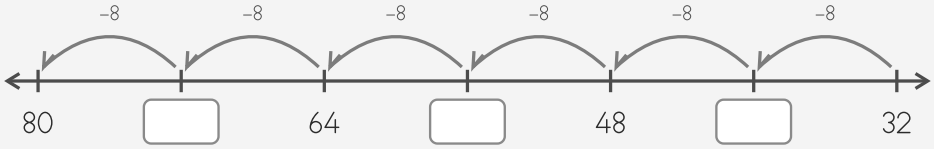

Örüntüyü incele. İstenen adımdaki nokta sayısını yaz.

5



5. adımda kaç nokta olur? _____

6



4. adımda kaç nokta olur? _____

7



4. adımda kaç nokta olur? _____

8



4. adımda kaç nokta olur? _____

4. Gün | Türkçe

Adı Soyadı _____

Zıt Anlamlı Sözcükler

Altı çizili sözcüğün zıt anlamlısını yaz.

1 Kapı <u>açık</u> kaldı. kapalı

2 Kardeşim bu akşam <u>erken</u> uyudu. _____

3 Bu çanta çok <u>ağır</u>. _____

4 Çaydanlıktaki su <u>sıcak</u>. _____

5 Oyuncak kutusu <u>dolu</u>. _____

6 Kaplumbağa <u>yavaş</u> yürür. _____

Zıt anlamlı iki sözcüğü aynı cümlede kullan.

7 uzun ile kısa

_____

_____

_____

8 ön ile arka

_____

_____

_____

5. Gün | Fen Bilimleri

Adı Soyadı _____

Canlıları Sınıflandıralım

Her canlının hangi gruba girdiğini işaretle.

		Mikroskopla görülebilen canlı	Mantar	Bitki	Hayvan
1	 Kedi	☐	☐	☐	☑
2	 Papatya	☐	☐	☐	☐
3	 Şapkalı mantar	☐	☐	☐	☐
4	 Balık	☐	☐	☐	☐
5	 Ağaç	☐	☐	☐	☐
6	Bakteri	☐	☐	☐	☐
7	 Serçe	☐	☐	☐	☐
8	 Fasulye	☐	☐	☐	☐
9	 Uğur böceği	☐	☐	☐	☐
10	Ekmek küfü	☐	☐	☐	☐

Adı Soyadı _____

Kısaltmalara Gelen Ekler

Parantezdeki kısaltmaya eki getir, kutuya yaz.

1 Dedem bayram kartını **PTT'den** gönderdi. (PTT, –den)

2 Sınıfımız geçen ay _____ gezdi. (TBMM, –i)

3 Bu akşam _____ çizgi film var. (TRT, –de)

4 Halam _____ uçakla gitti. (ABD, –e)

5 Teyzem _____ çalışıyor. (AVM, –de)

6 _____ uçağı piste indi. (THY, –in)

7 Annem bu kitabı 50 _____ aldı. (TL, –e)

8 _____ merkezi New York'tadır. (BM, –in)

9 Oyuncağın kutusunda _____ damgası var. (TSE, –in)

10 Okulumuza _____ bir görevli geldi. (AFAD, –den)

6. Gün | Matematik

Adı Soyadı _____

Tek mi, Çift mi?

Tek sayıları maviye, çift sayıları sarıya boya.

1 ◯ Tek sayı ◯ Çift sayı

37	52	18	91	240	305	76	113
468	59	600	87	324	9	150	777

Toplamı bul. Toplamın tek mi, çift mi olduğunu yaz.

2 24 + 13 = [37] Toplam [tek] sayıdır.

3 35 + 41 = [ ] Toplam [ ] sayıdır.

4 46 + 32 = [ ] Toplam [ ] sayıdır.

5 27 + 18 = [ ] Toplam [ ] sayıdır.

6 59 + 33 = [ ] Toplam [ ] sayıdır.

Cümleleri tamamla.

7 İki tek sayının toplamı [ ] sayıdır.

8 İki çift sayının toplamı [ ] sayıdır.

9 Bir tek ve bir çift sayının toplamı [ ] sayıdır.

6. Gün | Hayat Bilgisi

Adı Soyadı _____

Sağlığımı Koruyorum

Her cümle için Doğru ya da Yanlış kutusunu işaretle.

1  Yemekten önce ve sonra ellerimi sabunla yıkarım. ☑ Doğru ☐ Yanlış

2  Her gün çok şeker yerim. ☐ Doğru ☐ Yanlış

3  Dişlerimi sabah ve akşam fırçalarım. ☐ Doğru ☐ Yanlış

4  Her gece erken yatar, yeterince uyurum. ☐ Doğru ☐ Yanlış

5  Meyveleri yıkamadan yerim. ☐ Doğru ☐ Yanlış

6  Süt içer, yoğurt yerim. ☐ Doğru ☐ Yanlış

7  Arkadaşımın havlusunu kullanırım. ☐ Doğru ☐ Yanlış

8  Her gün dışarıda oynar, hareket ederim. ☐ Doğru ☐ Yanlış

9  Kahvaltı yapmadan okula giderim. ☐ Doğru ☐ Yanlış

10  Gün içinde sık sık su içerim. ☐ Doğru ☐ Yanlış

7. Gün | Türkçe

Adı Soyadı _____

Okuma Metni

Balkondaki Fasulye



Fen Bilimleri dersinde öğretmenimiz herkese birer fasulye tanesi verdi. Ben fasulyemi kavanozdaki ıslak pamuğun üstüne koydum. Kavanozu balkonda güneş alan rafa bıraktım.

Her sabah kavanoza baktım, gördüklerimi defterime yazdım. Üçüncü gün tanenin kabuğu çatladı. Beşinci gün fasulye filizlendi. Küçük, beyaz bir kök aşağı uzandı, yeşil filiz yukarı yükseldi.

Bir gün sulamayı unuttum. Ertesi sabah pamuk kurumuş, yapraklar boynunu bükmüştü. Hemen su verdim. Akşama doğru yapraklar yeniden dikildi.

İki hafta sonra fasulyemi annemle toprağa diktik. Defterimi de sınıfa götürüp arkadaşlarıma okudum.

1 Öğretmen herkese ne verdi? Birer fasulye tanesi.

2 Fasulye kaçıncı gün filizlendi? _____

3 Çocuk her sabah ne yaptı?

_____

4 filizlendi sözcüğü metinde ne anlama geliyor?

_____

5 boynunu bükmüştü sözü metinde ne anlama geliyor?

_____

6 Yapraklar neden boynunu büktü?

_____

Olayları oluş sırasına göre numaralandır.

7

- ☐ Fasulye filizlendi.
- ☐ Fasulye toprağa dikildi.
- ☐ Fasulye ıslak pamuğa kondu.
- ☐ Tanenin kabuğu çatladı.

8 Metnin ana fikri nedir?

_____

7. Gün | Matematik

Adı Soyadı _____

Tahmin Et, Say

Önce kaç tane olduğunu tahmin et, sonra say. İki sayıyı da kutulara yaz.

1



Tahminim 20 Saydım 24

2



Tahminim ____ Saydım ____

3



Tahminim ____ Saydım ____

4



Tahminim ____ Saydım ____

5



Tahminim ____ Saydım ____

6



Tahminim ____ Saydım ____

8. Gün | Fen Bilimleri

Adı Soyadı _____

Yaşam Döngüsü

Canlının yaşam döngüsündeki aşamaları sırayla numaralandır.

1



Tavuk

- [3] Tavuk
- [1] Yumurta
- [2] Civciv

2



Kelebek

- [ ] Tırtıl
- [ ] Kelebek
- [ ] Yumurta
- [ ] Pupa (koza)

3



Kurbağa

- [ ] Kurbağa
- [ ] İribaş
- [ ] Yumurta
- [ ] Bacakları çıkmış iribaş

4



Fasulye

- [ ] Fide
- [ ] Tohum
- [ ] Çiçek açan bitki
- [ ] Filiz

Kutudaki sözcüklerle cümleleri tamamla.

yumurtadan | tırtıl | tohumdan | ölür

5 Tavuk ve kurbağa yavruları [yumurtadan] çıkar.

6 Kelebeğin yumurtasından [ ] çıkar.

7 Fasulye bitkisi [ ] gelişir.

8 Canlılar doğar, büyür, çoğalır ve [ ].

Adı Soyadı _____

Kesirler

Şekil eş parçalara ayrılmış mı? İşaretle.

1



☑ Evet ☐ Hayır

2



☐ Evet ☐ Hayır

3



☐ Evet ☐ Hayır

4

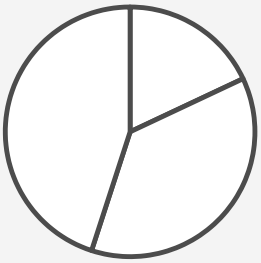

☐ Evet ☐ Hayır

Boyalı kısmı kesirle yaz.

5



$\frac{1}{2}$

6



$\frac{\square}{\square}$

7



$\frac{\square}{\square}$

8



$\frac{\square}{\square}$

Kesrin payını ve paydasını yaz.

9

$\frac{5}{8}$ Pay [5]
Payda [8]

10

$\frac{2}{6}$ Pay [ ]
Payda [ ]

9. Gün Türkçe

Adı Soyadı _____

Noktalama İşaretleri

Kutulara uygun noktalama işaretini koy.

1 Bugün hava çok güzel [.]

2 Akşam yemeğinde ne yiyeceğiz [ ]

3 Eyvah [ ] sütüm döküldü [ ]

4 Sepete domates [ ] biber ve salatalık koyduk [ ]

5 Dayım Trabzon [ ] da oturuyor [ ]

6 Pazarda şunları aldık [ ] elma, armut ve üzüm [ ]

7 Ne kadar tatlı bir kedi [ ]

8 Kardeşim Ece [ ] nin doğum günü yarın [ ]

9 Saat kaçta yola çıkacağız [ ]

10 Annem "Ödevini bitirdin mi [ ]" diye sordu [ ]

9. Gün | Hayat Bilgisi

Adı Soyadı _____

Güvende Kalalım

Her davranış için Güvenli ya da Güvenli değil kutusunu işaretle.

1 Karşıdan karşıya yaya geçidinden geçerim. ☑ Güvenli ☐ Güvenli değil

2 Bisiklete binerken kask takarım. ☐ Güvenli ☐ Güvenli değil

3 Islak elle prize dokunurum. ☐ Güvenli ☐ Güvenli değil

4 Tanımadığım birinin verdiği şekeri alırım. ☐ Güvenli ☐ Güvenli değil

5 Deprem olunca çök, kapan, tutun hareketini yaparım. ☐ Güvenli ☐ Güvenli değil

6 Balkon korkuluğuna tırmanırım. ☐ Güvenli ☐ Güvenli değil

7 Asansörde kalırsam alarm düğmesine basarım. ☐ Güvenli ☐ Güvenli değil

8 Evde yalnızken kapıyı tanımadığım birine açarım. ☐ Güvenli ☐ Güvenli değil

9 Kibritle oynarım. ☐ Güvenli ☐ Güvenli değil

10 Acil bir durumda hangi numarayı ararız? _____