4. Sınıf 14–22 Kasım



# Ara Tatil Kitabım



Türkçe | Matematik | Fen Bilimleri | Sosyal Bilgiler

Adı Soyadı .....

1. Gün | Türkçe

## Eş Sesli ve Eş Anlamlı Kelimeler

Altı çizili kelimenin cümledeki anlamını yaz.

1 Sabah yüzümü yıkadım.
başımızın ön kısmı

2 Kütüphanede yüz kitap var.

3 Bahçedeki gül açtı.

4 Fotoğraf çekiyorum, biraz gül.

5 Pazar günü kıra pikniğe gittik.

6 Kuru dalı ikiye kır.

Eş anlamlı kelimeleri çizgiyle eşleştir.

| | |
|---|---|
| 7 doğa | sebep |
| 8 anı | tabiat |
| 9 neden | imtihan |
| 10 sınav | hatıra |

1. Gün | Matematik

Adı Soyadı _____

# Altı Basamaklı Sayılar

Soruları cevapla.

1 63 250 sayısının okunuşunu yaz.

altmış üç bin iki yüz elli

2 408 017 sayısının okunuşunu yaz.

3 "Yüz yirmi bin beş yüz dört" sayısını rakamla yaz. _____

4 "Yetmiş bin altmış" sayısını rakamla yaz. _____

5 251 936 sayısının binler bölüğünde hangi sayı var? _____

6 614 285 sayısında 6 hangi basamaktadır? _____

7 93 471 sayısında 3'ün basamak değeri kaçtır? _____

8 47 806 sayısını çözümle.

9 300 000 + 20 000 + 500 + 9 hangi sayının çözümlenmiş hâlidir?

10 Binler bölüğünde 85, birler bölüğünde 307 olan sayıyı yaz.

2. Gün | Fen Bilimleri

Adı Soyadı _____

# Kayaçlar ve Madenler

Kayacı ya da madeni kullanıldığı yerle çizgiyle eşleştir.

| | | | |
|---|---|---|---|
| 1 | altın | ● | elektrik kablosu |
| 2 | bakır | ● | yüzük |
| 3 | mermer | ● | ısınma |
| 4 | kömür | ● | çivi |
| 5 | demir | ● | bina ve heykel |

Cümle doğruysa Doğru, yanlışsa Yanlış kutusunu işaretle.

| | | | |
|---|---|---|---|
| 6 | Madenler kayaçların içinde bulunur. | ☐ Doğru | ☐ Yanlış |
| 7 | Kayaçlar yalnız dağlarda bulunur. | ☐ Doğru | ☐ Yanlış |
| 8 | Fosillerden geçmişte yaşamış canlılar hakkında bilgi ediniriz. | ☐ Doğru | ☐ Yanlış |
| 9 | Ölen her canlı fosil olur. | ☐ Doğru | ☐ Yanlış |

Fosilin oluşumunu sırala. Kutulara 1, 2, 3, 4 yaz.

10 Fosil

- ☐ Kalıntının üstü çamur ve kumla örtülür.
- ☐ Canlı ölür.
- ☐ Uzun yıllar geçer, çamur ve kum sertleşip taşa döner.
- ☐ Canlının izi ya da kalıntısı taşın içinde kalır.

2. Gün | Matematik

Adı Soyadı _____

# Sayma ve Örüntüler

Ritmik sayarak boş kutulara gelecek sayıları yaz.

1

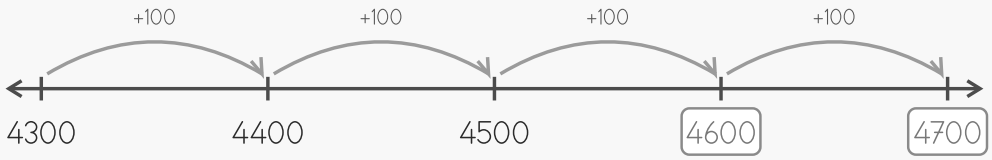


2

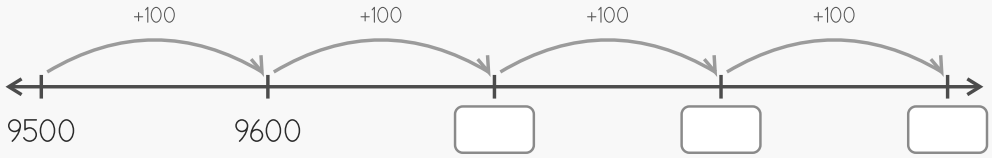


3

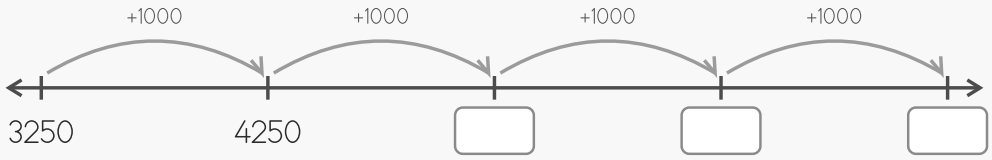


4

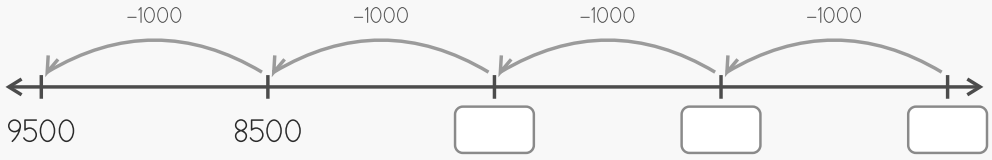


5

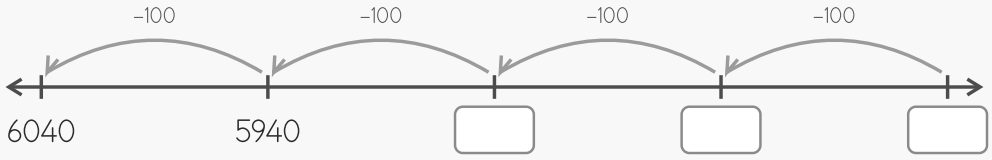


Soruları cevapla.

6 15, 22, 29, 36 örüntüsünün kuralını ve sıradaki sayıyı yaz.

_____

7 485, 460, 435 örüntüsünün kuralını ve sıradaki iki sayıyı yaz.

_____

8 4, 9, 14, 19 örüntüsünde 6. adımdaki terim kaçtır? _____

9 İlk terimi 12 olan, 6'şar artan örüntünün ilk beş terimini yaz.

_____

3. Gün | Türkçe

Adı Soyadı _____

# Fidan Günü

Metni oku. Soruları cevapla.

Cumartesi sabahı Ece, dedesiyle köyün arkasındaki tepeye çıktı. Dedesi iki çam fidanı, Ece su dolu bir kova taşıyordu. Tepede başka aileler de toprağı kazıyordu.



Dedesi derin bir çukur açtı. Ece fidanı çukura yerleştirdi, toprağı elleriyle bastırdı ve fidanın dibine su döktü.

İkinci fidanı dikerken rüzgâr çıktı, ince fidan bir yana eğildi. Dedesi fidanın yanına bir sopa çakıp fidanı iple bağladı. "Kökleri tutana kadar sopa ona destek olacak," dedi.

Eve dönerken Ece arkasına baktı. "Yazın yine gelip sularız," dedi.

Hikâyenin unsurlarını yaz.

1 Kişiler: Ece ve dedesi

2 Yer: _____

3 Zaman: _____

4 Olay: _____

5 Dedesi ikinci fidanın yanına neden sopa çaktı?

_____

6 "Kökleri tutana kadar" sözünde "tutmak" ne anlama geliyor?

☐ Toprağa yerleşmek ☐ Elle kavramak

7 Tepedeki diğer aileler ne yapıyor olabilir?

_____

8 Hikâyenin konusu nedir?

_____

9 Hikâyenin ana fikri nedir?

_____

3. Gün | Sosyal Bilgiler

Adı Soyadı _____

# Kimliğim ve Yeteneklerim

## Örnek Kimlik Kartı

T.C. Kimlik No: .....
Soyadı: ÖZTÜRK
Adı: DEFNE
Doğum Tarihi: 04.05.2017
Cinsiyeti: K
Uyruğu: T.C.



Kimlik kartına bakarak cevapla.

1 Kartın sahibinin adı ve soyadı nedir? Defne Öztürk

2 Defne hangi tarihte doğmuştur? _____

Her birinin ihtiyaç mı, ilgi mi, yetenek mi olduğunu işaretle.

| | İhtiyaç | İlgi | Yetenek |
|---|---|---|---|
| 3 uyumak | ☐ | ☐ | ☐ |
| 4 resim yapmaktan hoşlanmak | ☐ | ☐ | ☐ |
| 5 hızlı koşabilmek | ☐ | ☐ | ☐ |
| 6 beslenmek | ☐ | ☐ | ☐ |
| 7 kitap okumayı sevmek | ☐ | ☐ | ☐ |
| 8 güzel şarkı söyleyebilmek | ☐ | ☐ | ☐ |

9 Hayatındaki üç önemli olayı yıllarıyla, eskiden yeniye doğru yaz.

_____

_____

10 Sınıfınızda tekerlekli sandalye kullanan bir arkadaşınız var. Teneffüste hep birlikte hangi oyunu oynayabilirsiniz?

_____

4. Gün | Matematik

Adı Soyadı _____

# Yuvarlama ve Sıralama

Soruları cevapla.

1 3 462 sayısını en yakın onluğa yuvarla. 3 460

2 7 385 sayısını en yakın onluğa yuvarla. _____

3 596 sayısını en yakın onluğa yuvarla. _____

4 2 951 sayısını en yakın yüzlüğe yuvarla. _____

5 8 649 sayısını en yakın yüzlüğe yuvarla. _____

6 En yakın yüzlüğe yuvarlandığında 4 300 olan iki sayı yaz. _____

7 507 260, 570 206, 506 720 sayılarını küçükten büyüğe < ile sırala.

_____

8 98 015, 908 150, 89 510, 98 150 sayılarını büyükten küçüğe > ile sırala.

_____

9 3, 0, 8, 5, 1, 6 rakamlarını birer kez kullanarak yazılabilecek en büyük sayıyı yaz.

_____

10 Aynı rakamlarla yazılabilecek en küçük altı basamaklı sayıyı yaz. _____

4. Gün | Türkçe

Adı Soyadı _____

# On Kasım

Şiiri oku. Soruları cevapla.

Sarı yapraklar dökülür,
Kasım gelir, rüzgâr eser.
Bayrağımız yarıya iner,
Bütün yurt seni özler.

Saat dokuzu beş geçe
Sirenler uzun uzun çalar.
Arabalar durur yollarda,
Herkes saygıyla susar.

Bize bıraktığın bu yurtta
Okula gider, ders yaparız.
Bayrağımızı göğe çeker,
Seni sevgiyle anarız.

1 Şiir kaç kıtadan oluşuyor? üç

2 Her kıtada kaç dize var? _____

3 Şiirin konusu nedir?

_____

4 Şiirin ana duygusu hangisidir?

☐ Sevgi ve özlem ☐ Merak ve heyecan

5 Şiire göre sirenler saat kaçta çalıyor? _____

6 "yurt" kelimesinin eş anlamlısı nedir? _____

7 "durmak" kelimesinin zıt anlamlısı nedir? _____

8 Şiire iki dize ekle.

_____

_____

5. Gün | Fen Bilimleri

Adı Soyadı _____

# Dönme ve Dolanma

Soruları cevapla.

1 Güneş hangi yönden doğar, hangi yönde batar?

Doğudan doğar, batıda batar.

2 Öğle vaktinde Güneş gökyüzünde nerededir?

3 Güneş'in gün içindeki yeri neden değişiyor gibi görünür?

Cümle doğruysa Doğru, yanlışsa Yanlış kutusunu işaretle.

4 Dünya kendi ekseni etrafında batıdan doğuya döner. ☐ Doğru ☐ Yanlış

5 Dünya'nın Güneş'i görmeyen yüzünde gündüz yaşanır. ☐ Doğru ☐ Yanlış

6 Dünya kendi etrafında dönerken Güneş'in etrafında da dolanır. ☐ Doğru ☐ Yanlış

7 Dünya'nın kendi etrafındaki bir turu bir hafta sürer. ☐ Doğru ☐ Yanlış

Hangi harekete benzediğini işaretle.

| | Dönme | Dolanma |
|---|---|---|
| 8 Topacın kendi etrafında dönmesi | ☐ | ☐ |
| 9 Atlı karıncadaki çocuğun direğin çevresinde dolaşması | ☐ | ☐ |
| 10 Atletin koşu pistinin çevresinde koşması | ☐ | ☐ |

5. Gün Türkçe

Adı Soyadı _____

# Noktalama ve Üye Kartı

Cümleleri büyük harf ve noktalama işaretlerine dikkat ederek yeniden yaz.

1 ali ile zeynep ankaraya gitti

Ali ile Zeynep Ankara'ya gitti.

2 bu kitabı kimden aldın

3 pazardan elma armut ve nar aldık

4 atatürk 1881 yılında selanikte doğdu

5 öğretmenimiz derya hanım bize masal okudu

## Okul Kütüphanesi Üye Kartı

Kartı doldur.

6 Adı Soyadı: _____

7 Sınıfı ve şubesi: _____

8 Okulunun adı: _____

9 En sevdiği kitap türü: _____

10 Okumak istediği bir kitap: _____

6. Gün | Matematik

Adı Soyadı _____

# Alt Alta Toplama ve Çıkarma

İşlemleri yap.

1

$$\begin{array}{r} 3457 \\ +\ 2386 \\ \hline \square\square\square\square \end{array}$$

2

$$\begin{array}{r} 1908 \\ +\ 4675 \\ \hline \square\square\square\square \end{array}$$

3

$$\begin{array}{r} 5269 \\ +\ 3748 \\ \hline \square\square\square\square \end{array}$$

4

$$\begin{array}{r} 2594 \\ 1879 \\ +\ 3206 \\ \hline \square\square\square\square \end{array}$$

5

$$\begin{array}{r} 6352 \\ -\ 2718 \\ \hline \square\square\square\square \end{array}$$

6

$$\begin{array}{r} 8004 \\ -\ 3567 \\ \hline \square\square\square\square \end{array}$$

7

$$\begin{array}{r} 9130 \\ -\ 4285 \\ \hline \square\square\square\square \end{array}$$

8

$$\begin{array}{r} 7600 \\ -\ 2946 \\ \hline \square\square\square\square \end{array}$$

6. Gün | Sosyal Bilgiler

Adı Soyadı _____

# Aile Tarihi ve Kültür

Kaynağın türünü işaretle.

| | Sözlü | Yazılı | Görsel | Nesne |
|---|---|---|---|---|
| 1 dedenin anlattığı anı | ☑ | ☐ | ☐ | ☐ |
| 2 eski bir gazete | ☐ | ☐ | ☐ | ☐ |
| 3 düğün fotoğrafı | ☐ | ☐ | ☐ | ☐ |
| 4 dedenin cep saati | ☐ | ☐ | ☐ | ☐ |
| 5 ninenin söylediği türkü | ☐ | ☐ | ☐ | ☐ |
| 6 eski bir nüfus cüzdanı | ☐ | ☐ | ☐ | ☐ |

Ailende ve çevrende gördüğün millî kültür örneklerini yaz.

7 Bayramlarda yapılan bir gelenek: _____

8 Düğünlerde yapılan bir gelenek: _____

9 Bir el sanatı: _____

10 Bir büyüğüne çocukluğunda nasıl bir evde yaşadığını sor. Öğrendiğini yaz.

_____

_____

Adı Soyadı _____

# Yönergeler

Cümle gerçekse Gerçek, hayalîyse Hayalî kutusunu işaretle.

1 Kuşlar yemlikteki tohumları yedi. ☑ Gerçek ☐ Hayalî

2 Serçe, yemlik için Ece'ye teşekkür etti. ☐ Gerçek ☐ Hayalî

3 Kasım ayında havalar soğumaya başlar. ☐ Gerçek ☐ Hayalî

4 Rüzgâr, ağacın kulağına bir şarkı fısıldadı. ☐ Gerçek ☐ Hayalî

Kuş yemliği yapmanın adımlarını sırala. Kutulara 1'den 6'ya kadar yaz.

5 **Kuş Yemliği**

- ☐ Şişenin içini kuş yemiyle doldur.
- ☐ Boş bir pet şişeyi yıkayıp kurula.
- ☐ Yemliği bir ağaç dalına as.
- ☐ Bir büyüğünden şişenin iki yanına karşılıklı delik açmasını iste.
- ☐ Deliklerden tahta bir kaşık geçir.
- ☐ Şişenin kapağını kapat, boynuna ip bağla.

6 Hangi adımda bir büyüğünden yardım istemelisin? Neden?

_____

7 Kuş yemliği için hangi malzemeler gerekir? Yönergeden bulup yaz.

_____

8 Bu yönergeyi uygula: Alttaki çizgiye adını yaz. Adının yanına bir yıldız çiz. Yıldızın sağına bugünün tarihini yaz.

_____

Adı Soyadı _____

# Besinlerimiz

Besin içeriklerini görevleriyle çizgiyle eşleştir.

| | |
|---|---|
| 1 karbonhidrat ● | ● büyümemizi ve gelişmemizi sağlar |
| 2 protein ● | ● kemik ve dişlerin sağlam olmasına yardım eder |
| 3 vitamin ● | ● vücuda enerji verir |
| 4 mineral ● | ● hastalıklara karşı direnç kazandırır |

5 Su ve mineraller hangi besinlerde bulunur?

☐ Yalnız meyvelerde ☐ Bütün besinlerde

6 Bir süt kutusunda "Son kullanma tarihi: 17.11.2026" yazıyor. Bu sütü 20 Kasım'da içmek doğru olur mu? Neden?

_____

Öğünün dengeli olup olmadığını işaretle.

7  Kahvaltı: peynir, zeytin, yumurta, domates, ekmek ve süt

☐ Dengeli ☐ Dengesiz

8  Öğle yemeği: cips, gazoz ve çikolata

☐ Dengeli ☐ Dengesiz

9 Yemeğin artıp çöpe gitmemesi için ne yapabilirsin? Bir örnek yaz.

_____

10 Çok şekerli yiyecekler yiyip az hareket etmek hangi sağlık sorununa yol açabilir?

_____

Adı Soyadı _____

# Zihinden İşlem ve Tahmin

İşlemleri zihinden yap.

1 2 600 + 300 = 2 900

2 4 750 + 200 = _____

3 1 380 + 600 = _____

4 5 900 + 800 = _____

5 740 – 30 = _____

6 840 – 60 = _____

7 650 – 400 = _____

8 870 – 500 = _____

Sayıları en yakın yüzlüğe yuvarlayarak sonucu tahmin et. Sonra işlemi yap, tahminle sonuç arasındaki farkı bul.

9 3 486 + 2 317

_____

_____

_____

10 6 812 – 3 391

_____

_____

_____

8. Gün | Sosyal Bilgiler

Adı Soyadı _____

# Oyunlar ve Kahramanlar

Dedem çocukken uçurtmasını kamış, kâğıt ve iple kendisi yapardı. Ben uçurtmamı oyuncakçıdan aldım. İkimiz de uçurtmayı rüzgârlı günlerde açık alanda uçururuz.

1 Uçurtma oyununda geçmişten bugüne ne değişmiş?

Uçurtma eskiden evde yapılırdı, bugün hazır alınıyor.

2 Ne değişmemiş?

3 İki geleneksel çocuk oyunu yaz.

4 Hangisi açık havada, kalabalık bir grupla oynanır?

☐ Mendil kapmaca ☐ Tablette bulmaca

Millî Mücadele kahramanlarını yaptıklarıyla çizgiyle eşleştir.

| | |
|---|---|
| 5 Mustafa Kemal ● | ● Antep'i düşmana karşı savundu. |
| 6 Sütçü İmam ● | ● Kurduğu birlikle cephede savaştı. |
| 7 Şahin Bey ● | ● Millî Mücadele'yi başlattı, Başkomutan olarak yönetti. |
| 8 Kara Fatma ● | ● Maraş'ta düşman askerlerine ilk kurşunu attı. |

9 Millî Mücadele kahramanlarının ortak özellikleri nelerdir?

9. Gün | Türkçe

Adı Soyadı _____

# Mehmet Âkif Ersoy

Metni oku. Soruları cevapla.

Mehmet Âkif Ersoy 1873 yılında İstanbul'da doğdu. Baytar okulunu bitirdi, uzun yıllar hasta hayvanları tedavi etti. Bir yandan da şiir yazdı ve şiirlerini Safahat adlı kitapta topladı.

Millî Mücadele başlayınca Anadolu'ya geçti. Şehir şehir gezdi, camilerde halka konuşmalar yaptı.

O yıllarda millî marşımızın yazılması için bir yarışma açıldı. Yarışmanın para ödülü vardı. Mehmet Âkif, para için şiir yazmak istemediğinden önce yarışmaya katılmadı. Çevresindekiler çok ısrar edince şiirini yazdı. İstiklâl Marşı, 12 Mart 1921'de Türkiye Büyük Millet Meclisinde kabul edildi. Mehmet Âkif bu şiiri Safahat'a koymadı, milletine ait olduğunu söyledi.

1 Mehmet Âkif Ersoy nerede doğdu? İstanbul'da.

2 Metne göre "baytar" ne demektir? _____

3 Mehmet Âkif yarışmaya neden önce katılmadı?

_____

4 İstiklâl Marşı nerede ve ne zaman kabul edildi?

_____

5 Metnin konusu nedir?

_____

6 Bu metin hangi türdedir?

☐ Bilgilendirici metin ☐ Hikâye edici metin

7 Mehmet Âkif'in marşı kitabına koymamasından onun hakkında ne çıkarırsın?

_____

8 Metne başka bir başlık yaz.

_____

9. Gün | Matematik

Adı Soyadı _____

# Toplama Problemleri

Problemleri oku. İşlemini ve cevabını yaz.

1 Bir fırın cumartesi 1 248, pazar 1 576 simit sattı. Fırın iki günde kaç simit sattı?

1 248 + 1 576 = 2 824 simit

2 Bir köyde 2 364 koyun, 1 869 keçi var. Köyde toplam kaç koyun ve keçi var?

3 Bir hayvanat bahçesini pazartesi 1 095, salı 1 280, çarşamba 1 347 kişi gezdi. Üç günde kaç kişi gezdi?

4 Bir fabrika ilk gün 1 450 oyuncak üretti. İkinci gün ilk günden 375 fazla oyuncak üretti. Fabrika iki günde kaç oyuncak üretti?

5 Bir otobüs firması pazartesi 2 380 yolcu taşıdı. Salı günü pazartesiden 640 fazla yolcu taşıdı. Firma iki günde kaç yolcu taşıdı?

6 Bir okulda 486 kız, 517 erkek öğrenci var. Okula 38 yeni öğrenci geldi. Okulda kaç öğrenci oldu?

7 Bir kitap üç bölümdür. Birinci bölüm 145, ikinci bölüm 168, üçüncü bölüm 132 sayfadır. Kitap kaç sayfadır?

8 İşlemi 2 500 + 1 300 olan bir problem yaz ve çöz.